ОТВЕТЫ К ЗАДАНИЯМ ПЕРВОГО (ОТБОРОЧНОГО) ТУРА
открытой многопрофильной Олимпиады Кубанского государственного университета для школьников по профилю «История»
8-9 класс

Время выполнения заданий – 180 минут.
Максимальное количество баллов – 100.

Задание 1. **Укажите, о каких правителях идет речь в данных цитатах. Определите и укажите автора этих цитат.** *(7 баллов)*

Цитата 1. Он хотел не заимствовать с Запада готовые плоды тамошней техники, а усвоить ее, пересадить в Россию самые производства с их главным рычагом – техническим знанием.

Цитата 2. Это царствование органически связано как протест – с прошедшим, а как первый неудачный опыт новой политики, как назидательный урок для преемников – с будущим.

Цитата 3. Это царствование – одна из мрачных страниц нашей истории, и наиболее темное пятно на ней – сам правитель.

Цитата 4. С Петра едва смея считать себя людьми и ещё не считая себя настоящими европейцами, русские при … почувствовали себя не только людьми, но и чуть не первыми людьми в Европе. За это не ставили в счёт ни ошибок внешней политики, ни неудобств внутреннего положения, ни поступков, недостойных ни ума, ни сана.

Цитата 5. Случайный гость русского престола, он мелькнул падучей звездой на русском политическом небосклоне, оставив всех в недоумении, зачем он на нем появился.

Цитата 6. С правления Софьи никогда на Руси не жилось так легко, и ни одно царствование до 1762 г. не оставляло по себе такого приятного воспоминания.

Автор цитат (укажите только фамилию!) – Ключевский

Номер цитаты	Правитель
1	Петр I
2	Павел I
3	Анна Иоанновна (Анна Ивановна)
4	Екатерина II
5	Петр III
6	Елизавета Петровна

За каждый правильный элемент ответа – 1 балл. Всего 7 баллов.

Задание 2. **В XIII–XV веках Русь подвергалась многочисленным набегам со стороны Золотой Орды. Перед вами летописные источники о татарских нашествиях. Датируйте каждый источник и укажите имя предводителя набега, пропущенное в текстах.** *(8 баллов)*

Отрывок 1. В год 6917 <...> О <…>, князе Ордынском, который разорял Московскую землю. Той же зимой некий князь ордынский именем <…> по повелению царя Булата пришел с войском на Русскую землю, а с ним четыре царевича и много татарских князей.

Услышав об этом, великий князь Василий Дмитриевич опечален был горем, грехов ради наших постигшим Русь: ведь вначале беззаконные измаилтяне заключили с нашими русскими князьями ложный мирный договор и прежде всего с великим князем Василием Дмитриевичем, притворно мирясь с ним, ибо никогда не говорят христианам истины.

…

Когда прошло двадцать дней с тех пор как агарянин <…> осадил славный град Москву, возомнил он о своем величии и надумал тут зимовать…

Отрывок 2. В лето 6760 прииде <…> и Котья и Олабуха храбры на землю Суздалскую со многеми вой на великого князя Андрея Ярославича и бродиша Клязьму канун Бориса дни под Володимерем. Князь же Андрей срете их с своими полки, и бысть сеча велика, и победита погании. А князь Андрей и со княгинею бежа въ Свиязскую землю. Татарове же плениша град Переславль, княгиню Ярославлю яша и убиша, а дети изымашя и ведошя в полон, и воеводу Жидислава убиша ту, и людей много полониша, и зла много сотворив, отъидошя.

Отрывок 3. В год 6835. Узнав об этом, беззаконный царь зимой послал войско на Русскую землю, воеводу <…> и пять темников. И множество людей погубили, иных в плен повели, а Тверь и все города огнем пожгли.

Великий же князь Александр Михайлович, не вытерпев гонения безбожных, оставил княжение Русское и все отечество свое, и пошел в Псков с княгинею и с детьми своими, и был в Пскове.

Отрывок 4 … Люди городские, поверив словам их, согласились и тем дали себя обмануть, ибо ослепило их зло татарское и помрачило разум их коварство бесерменское; позабыли и не вспомнили сказавшего: «Не всякому духу веруйте». И отворили ворота городские, и вышли со своим князем с дарами многими к <…>, также и архимандриты, игумены и попы с крестами, а за ними бояре и лучшие мужи, и потом народ и черные люди.

И тотчас начали татары сечь их всех подряд. Первым из них убит был князь Остей перед городом, а потом начали сечь попов, игуменов, хотя и были они в ризах и с крестами, и черных людей. И можно было тут видеть святые иконы, поверженные и на земле лежащие, и кресты святые валялись поруганные, ногами попираемые, обобранные и ободранные. Потом татары, продолжая сечь людей, вступили в город, а иные по лестницам взобрались на стены, и никто не сопротивлялся

Отрывок	Год набега	Имя предводителя набега
1	1408	Едигей
2	1252	Неврюй
3	1327	Федорчук
4	1382	Тохтамыш

За каждый правильный элемент ответа – 1 балл. Всего 8 баллов.

Задание 3. **Ознакомьтесь с фрагментом исторического источника и ответьте на предложенные к нему вопросы.** *(5 баллов)*

«Царь и великий князь ____ _____ всея Руси указал, и бояре приговорили: которые крестьяне из-за бояр и из-за дворян и из-за приказных людей и из-за детей боярских и из-за всяких людей, из поместий... и из монастырских вотчин выбежали до нынешнего году за пять лет, и на тех беглых крестьян в их побеге, и на тех помещиков и вотчинников за кем они выбежав живут, тем помещиком из-за кого они выбежали, и патриаршим и митрополичьим и владычным детям боярским и монастырских сёл приказчикам и служкам, давать суд и сыскивать накрепко всякими сыски, и по суду и по сыску тех беглых крестьян с жёнами и с детьми и со всеми животы возить назад, где кто жил.

А которые крестьяне выбежали до нынешнего году лет за шесть и за семь и за десять и больше, а те помещики и вотчинники, из-за кого они выбежали... на тех своих беглых крестьян в их побеге, и на тех помещиков и на вотчинников, за кем они из-за них выбежав живут, до нынешнего году, лет за шесть и за семь и за десять и больше государю царю не бивали челом; и государь указал и бояре приговорили: на тех беглых крестьян в их побеге, и на тех помещиков вотчинников, за кем они выбежав живут, суда не давать, и назад их, где кто жил, не вывозите».

3.1. Назовите царя, имя и отчество которого пропущены в тексте. В ответ запишите имя и отчество в именительном падеже.
3.2. Что вводилось, согласно указу? В ответ укажите термин, обозначавший явление.

3.3. Из предложенного списка выберите трех современников данного события. В ответе укажите номера, под которыми они указаны, без пробелов.
1) Патриарх Никон
2) Борис Годунов
3) Шведский король Карл IX
4) Ермак Тимофеевич
5) Малюта Скуратов
6) Хан Девлет Гирей
7) Патриарх Иов
8) А.Л. Ордин-Нащокин
9) Степан Разин
Ответы:
3.1. Федор Иванович (Федор Иоаннович)
3.2. Урочные лета
3.3. 237
За каждый правильный элемент ответа – 1 балл. Всего 5 баллов.

Задание 4. **Соотнесите названия произведений искусства с событиями (явлениями, процессами), которым они посвящены. Во втором столбце три события лишние.** *(8 баллов)*

Название произведения	**Событие (явление, процесс)**
А поэма «Слово о полку Игореве»	1. Поход Игоря Святославича Новгород-Северского на половцев
Б опера «Жизнь за царя»	2. Невская битва
В картина «Поединок Пересвета с Челубеем»	3. Отечественная война 1812 г.
Г памятник Минину и Пожарскому	4. освобождение Москвы от интервентов
Д храм Василия Блаженного	5. церковный раскол
Е роман-эпопея «Война и мир»	6. поход польского войска на Москву
Ж картина «Боярыня Морозова»	7. взятие Казани
З Храм Воскресения Христова на Крови	8. Куликовская битва
	9. гибель императора Александра II
	10. гибель князя Игоря в древлянской земле
	11. Первая мировая война

А	Б	В	Г	Д	Е	Ж	З
1	6	8	4	7	3	5	9

За каждый правильный элемент ответа – 1 балл. Всего 8 баллов.

Задание 5. **Перед Вами песня, посвященная одному историческому событию. Ответьте на вопросы, относящиеся к ней.** *(6 баллов)*

Вспомним, братцы, как стояли

Мы на (1) в облаках,

Турки нас атаковали

И остались в дураках!

Слава гремит трубой!

За Дунаем, за рекой,

По горам твоим Балканским

Раздалась слава про нас.

Только утро рассветает,

Разнесет вокруг туман,

И на (1) наступает

Вновь упорный Сулейман.

Сулеймановы аскеры

Крепко в (1) били лбом;

А мы били их без меры

И прикладом, и штыком.

Плохо было в одну пору,

Дрались турки жестоко

И как черти лезли в гору,

Но взошли невысоко.

Как стрелочки подскакали

На казачьих лошадях,

Турки разом закричали

Свой «аман» и свой «Аллах»!

Вот была тогда потеха:

Наши грянули «Ура!»

Мигом турки побежали,

И досталась нам гора

Разнесли ж мы эту сволочь,

Расщелкали всю орду!

Это все, стрелочки, было

В <…> году!

1) В рамках какой войны произошло событие, о котором говорится в песне?
   Русско-турецкая война
2) Укажите годы данной войны.
   1877-1878
3) Во время правления какого российского императора произошло описываемое событие?
   Александр II
4) Какое географическое название скрыто в стихотворении под цифрой 1? Ответ дайте в именительном падеже.
   Шипка
5) На какой картине изображено описываемое событие? Назовите фамилию художника, который написал данное полотно.

Номер картины	Фамилия художника
2	Верещагин

1

2



3

4

За каждый правильный элемент ответа – 1 балл. Всего 6 баллов.

Задание 6. **Перед Вами текст о денежной реформе, произошедшей в России в определенный период. Заполните пропуски в тексте. Все ответы должны быть даны в <u>именительном падеже</u>!** *(6 баллов)*

В 30-е годы XIX века в финансовой сфере Российской империи сложилась кризисная ситуация. В первую очередь это было связано с тем, что (1 – термин), введенные в обращение при Екатерине II, выпускались довольно часто, но не имели твердой обеспеченности и очень быстро обесценивались. Это заставило государство обратиться к реформам. Денежная реформа проводилась в период с (2 – год) по (3 – год) год, и руководил процессом министр финансов (4 – фамилия). (5 – термин) стал использоваться как основное платежное средство, а бумажные деньги отходили на второй план. Окончательно обмен завершился в 1851 и 1853 годах. Кредиты свободно обменивались на серебро и золото (на серебро в равных долях, а на золото чуть ниже).

Денежная реформа, проведенная (4 – фамилия деятеля), обеспечила достаточную стабильность денежного обращения в аграрной России со слабыми товарными отношениями. Реформа активно действовала до (6 – событие), именно тогда проводилась значительная эмиссия кредитных билетов, в результате государство ввело даже ограничения на свободный обмен на золото и серебро.

1 – Бумажные ассигнации

2 – 1839

3 – 1842

4 – Канкрин

5 – Серебряный рубль

6 – Крымской войны

За каждый правильный элемент ответа – 1 балл. Всего 6 баллов.

Задание 7. **Вам даны имена русских князей. Соотнесите по парам сражавшихся между собой в междоусобных битвах князей. Назовите битвы, в которых они сталкивались и их даты.** *(9 баллов)*

А) Всеслав Брячиславич

Б) Михаил Ярославич

В) Святополк Владимирович

Г) Юрий Данилович

Д) Изяслав Ярославич, Святослав Ярославич, Всеволод Ярославич

Е) Ярослав Владимирович

Пара князей (вставьте верную букву)	Битва	Дата
А – Д	Битва на Немиге	1067
Б – Г	Бортеневская битва	1317
В – Е	Битва на Альте	1019

За каждый правильный элемент ответа – 1 балл. Всего 9 баллов.

Задание 8. **Перед Вами карты наступательных операций Красной армии в годы Великой Отечественной войны. Расположите данные карты в таблице в хронологической последовательности по <u>дате начала операции.</u> Также к каждой операции подберите букву фотографии, на которой изображен полководец, командовавший одним из фронтов в данной битве (к каждой операции нужно подобрать своего полководца. Ответы <u>не могут</u> повторяться, даже если один и тот же полководец участвовал сразу в нескольких приведенных операциях).** *(20 баллов)*

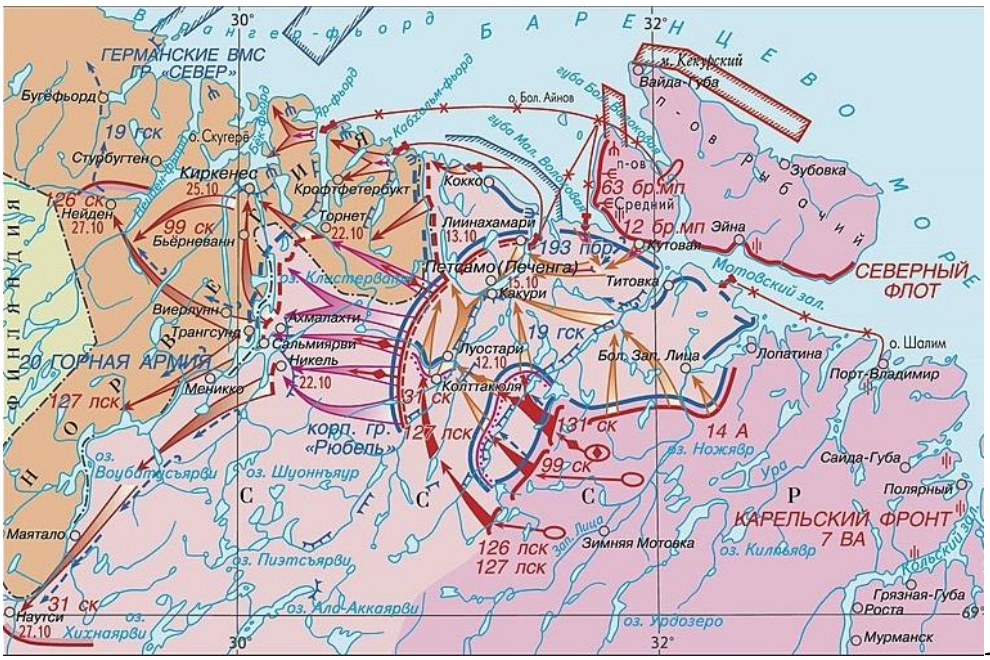
ГЕРМАНСКИЕ ВМС
ГР. «СЕВЕР»
Бугефьорд
19 гск
Стурбугтен
Киркенес
25.10
126 ск
Нейден
27.10
99 ск
Бьёрневанн
Виерлунн
Трангсунд
20 ГОРНАЯ АРМИЯ
127 пск
Меникко
Ахмалахти
Сальмиярви
Никель
22.10
Крофтфетербукт
Торнет
22.10
Кокко
Лиинахамари
13.10
Петсамо (Печенга)
15.10
Какури
193 пбр
63 бр.мп
12 бр.мп
Эйна
Титовка
Мотовский зал.
СЕВЕРНЫЙ ФЛОТ
Зубовка
Полуостров Рыбачий
Лоостари
12.10
Колттакюля
131 ск
127 пск
корп. гр. «Рюбель»
19 гск
Бол. Заг. Лица
Лопатина
Порт-Владимир
14 А
вз. Ножявр
99 ск
Сайда-Губа
Полярный
КАРЕЛЬСКИЙ ФРОНТ
7 ВА
оз. Килпьявр
Зимняя Мотовка
126 пск
127 пск
Маятало
31 ск
Наутси
27.10
оз. Хихнаярви
оз. Пиэтсярви
оз. Ала-Аккаярви
оз. Урдозеро
Грязная-Губа
Роста
Мурманск
Баренцево море
30°
32°
69°

A

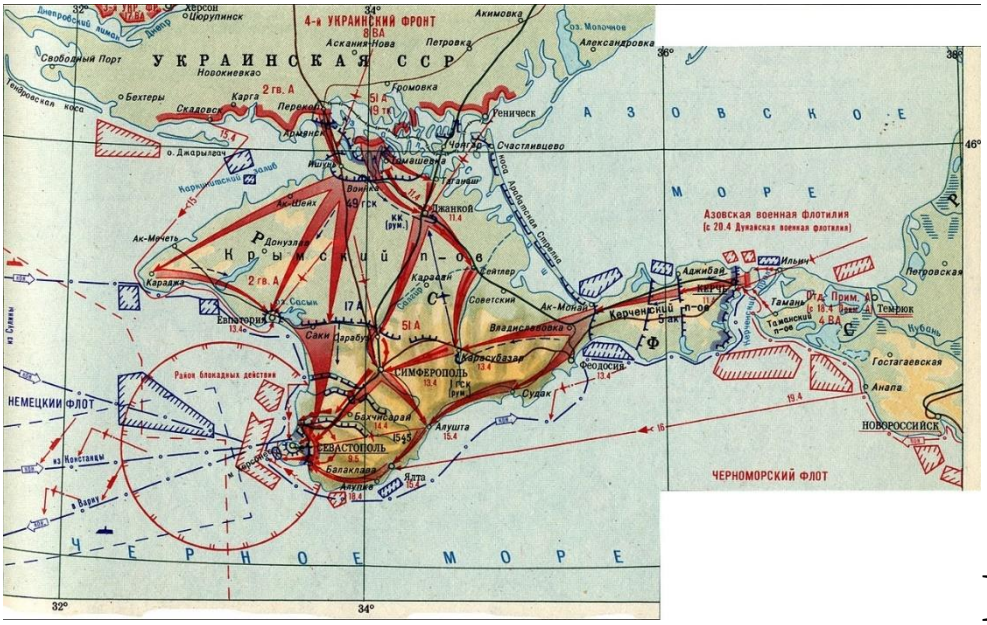
4-й УКРАИНСКИЙ ФРОНТ
8 ВА
УКРАИНСКАЯ ССР
Херсон
Цюрупинск
Акимовка
Аскания-Нова
Петровка
Александровка
Свободный Порт
Новокиевкаго
Бехтеры
Скадовск
Карга
Перекоп
Громовка
Ренический
Очаетиевцево
Джанкой
Ак-Шейх
Ак-Мечеть
Крымский п-ов
Евпатория
Саки
Симферополь
Бахчисарай
Алушта
Севастополь
Балаклава
Ялта
Феодосия
Судак
Керчь
Ак-Монай
Владиславовка
Советский
Азовское море
Азовская военная флотилия
Ильич
Аджибай
Темрюк
Гостагаевская
Анапа
Новороссийск
Черноморский флот
Черное море
Район блокадных действий
Немецкий флот
2 гв. А
51 А
17 А
32°
34°
36°
46°

B

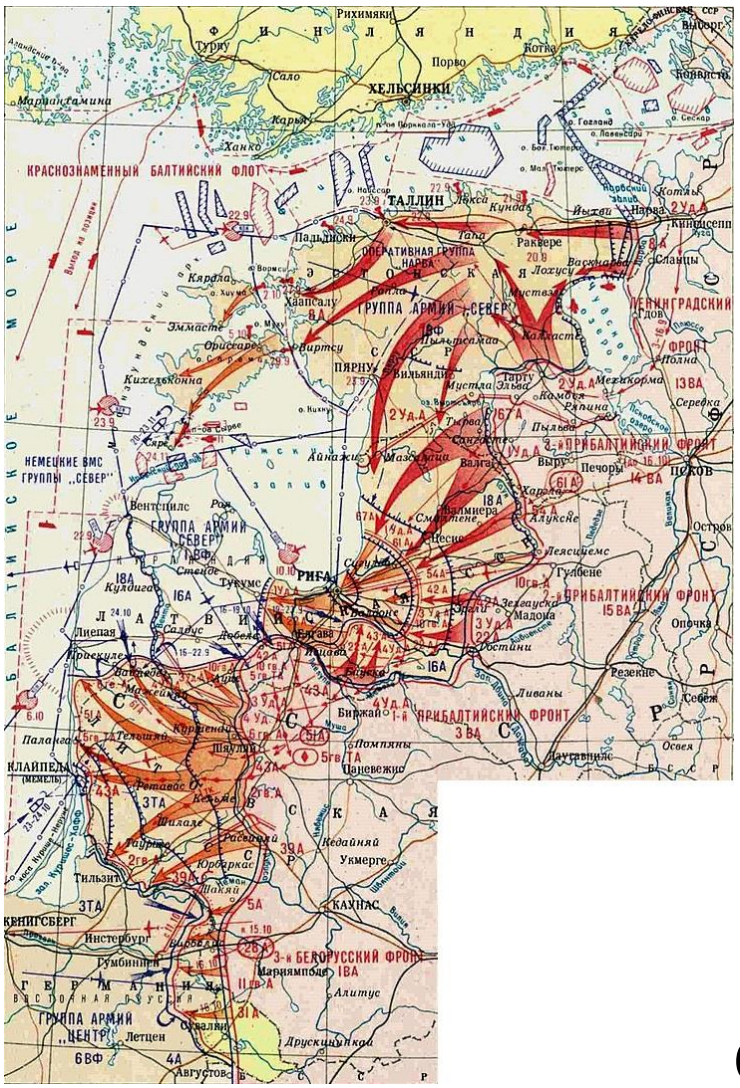
ФИНЛЯНДИЯ
ХЕЛЬСИНКИ
КРАСНОЗНАМЕННЫЙ БАЛТИЙСКИЙ ФЛОТ
ТАЛЛИН
ОПЕРАТИВНАЯ ГРУППА „НАРВА"
ГРУППА АРМИЙ „СЕВЕР"
ЛЕНИНГРАДСКИЙ ФРОНТ
ПЯРНУ
НЕМЕЦКИЕ ВМС ГРУППЫ „СЕВЕР"
ГРУППА АРМИЙ „СЕВЕР"
РИГА
ПРИБАЛТИЙСКИЙ ФРОНТ
ПРИБАЛТИЙСКИЙ ФРОНТ
ПРИБАЛТИЙСКИЙ ФРОНТ
ПСКОВ
КЛАЙПЕДА
КАУНАС
КЕНИГСБЕРГ
3-й БЕЛОРУССКИЙ ФРОНТ
ГРУППА АРМИЙ „ЦЕНТР"
БАЛТИЙСКОЕ МОРЕ

С

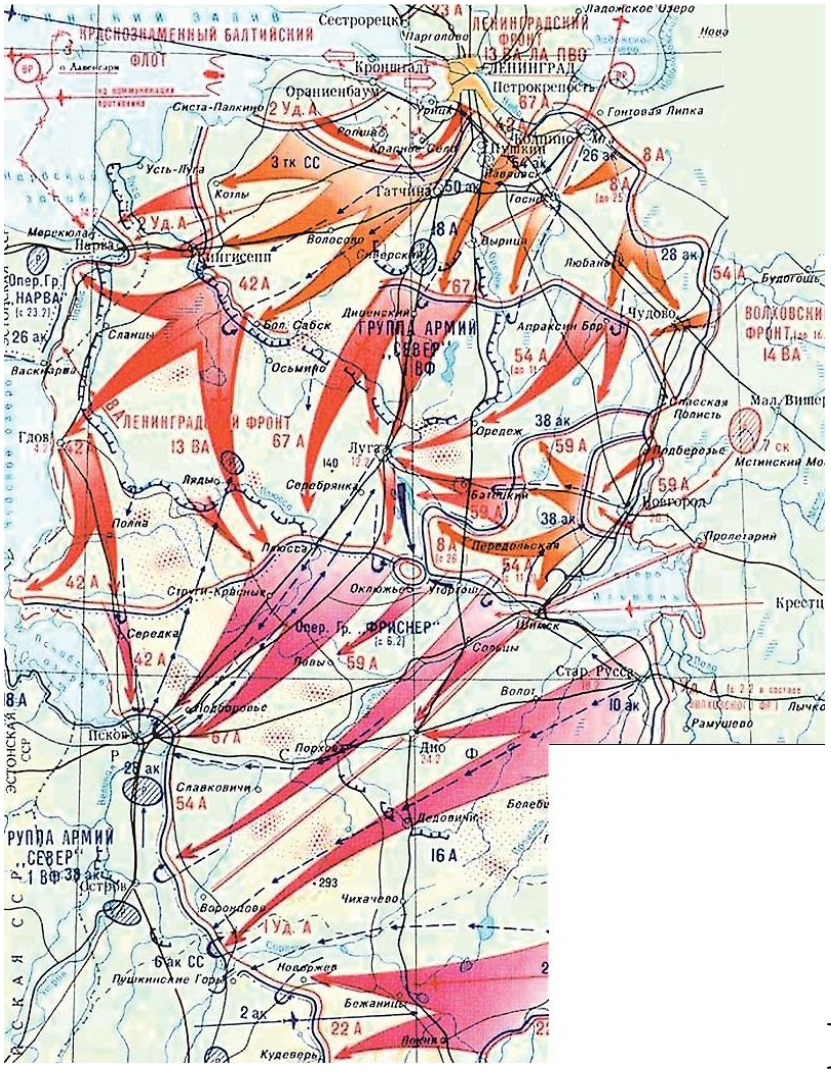
КРАСНОЗНАМЕННЫЙ БАЛТИЙСКИЙ ФЛОТ
ЛЕНИНГРАДСКИЙ ФРОНТ
13 ВА-ЛА ПВО
ЛЕНИНГРАД
Сестрорецк
Кронштадт
Ораниенбаум
Петрокрепость
Гонтовая Липка
Ладожское Озеро
Нова
Систа-Палкино
2 Уд. А
3 тк СС
Усть-Луга
Котлы
Гатчина
Волосово
Сиверский
Вырица
Любань
Чудово
Будогощь
Мерекюла
Нарва
Ингисепп
Опер. Гр. „НАРВА"
Сланцы
Бол. Сабск
Осьмино
Дивенский
ГРУППА АРМИЙ „СЕВЕР" 1 ВФ
Апраксин Бор
ВОЛХОВСКИЙ ФРОНТ
14 ВА
Спасская Полисть
Мал. Вишер
Гдов
ЛЕНИНГРАДСКИЙ ФРОНТ
13 ВА
Луга
Оредеж
Подберезье
Мстинский Мо
Ляды
Серебрянка
Батецкий
Новгород
Полна
Плюсса
Передольская
Пролетарий
Струги-Красные
Оклюжье
Уторгош
Крестц
Середка
Опер. Гр. „ФРИСНЕР"
Шимск
Сольцы
Стар. Русса
Волот
Рамушево
Псков
Порхов
Дно
Славковичи
Дедовичи
Белебе
ГРУППА АРМИЙ „СЕВЕР" 1 ВФ
Остров
Чихачево
Воронцово
1 Уд. А
6 ак СС
Пушкинские Горы
Новоржев
Бежаницы
Кудеверь
Лекня
ЭСТОНСКАЯ ССР
Р
Ф
67 А
54 А
42 А
59 А
38 ак
26 ак
28 ак
10 ак
16 А
22 А
2 ак
8 А
18 А
50 ак
67
140
293

D

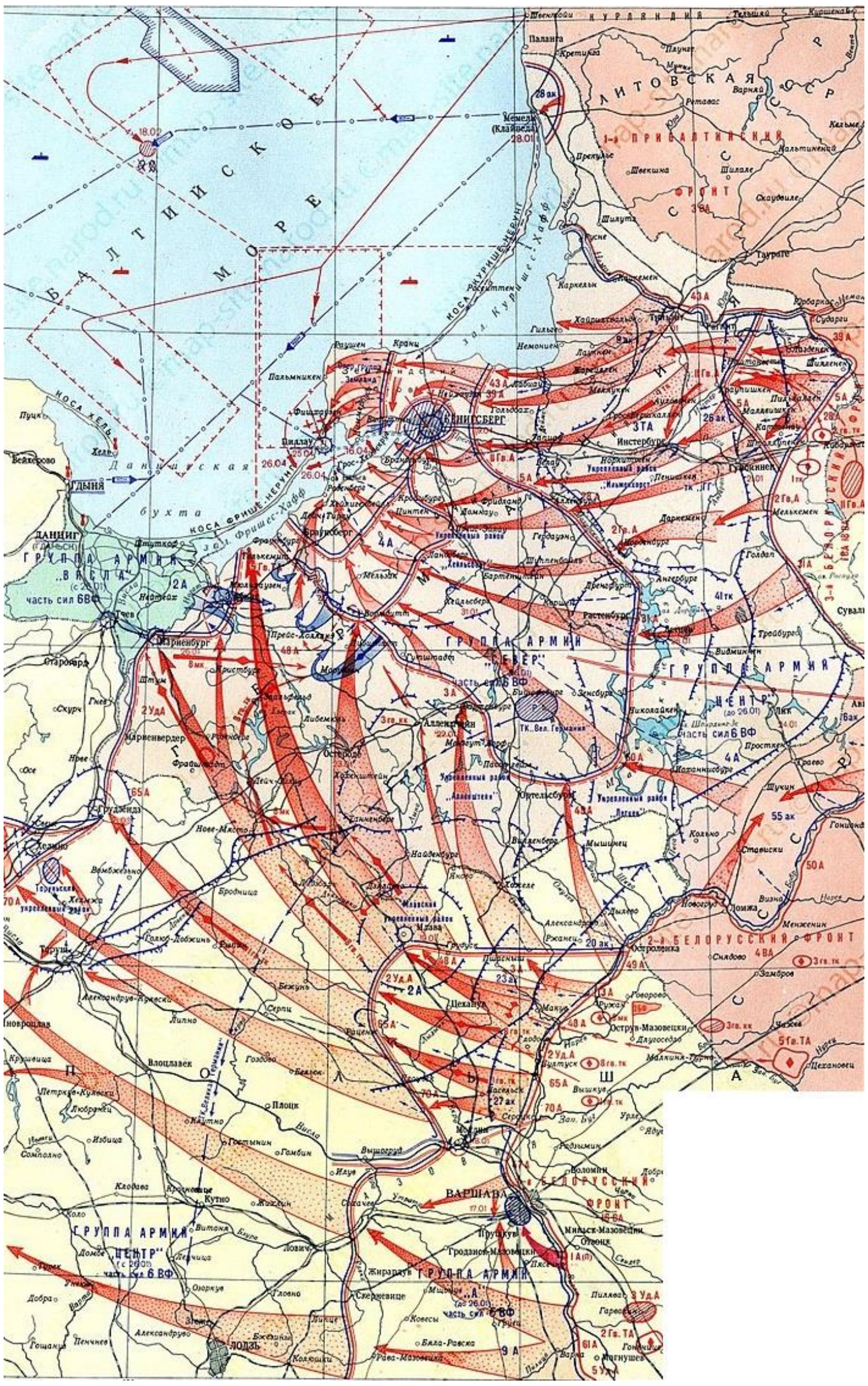
БАЛТИЙСКОЕ МОРЕ
ЛИТОВСКАЯ ССР
КЕНИГСБЕРГ
Данцигская бухта
ГРУППА АРМИЙ "ВИСЛА"
ГРУППА АРМИЙ "СЕВЕР"
ГРУППА АРМИЙ "ЦЕНТР"
ВАРШАВА
2-й БЕЛОРУССКИЙ ФРОНТ

E

КИЕВ
ЛЬВОВ
ЧЕРНОВИЦЫ
ЯССЫ
КИШИНЕВ
ОДЕССА
СЕВАСТОПОЛЬ
СИМФЕРОПОЛЬ
ДНЕПРОПЕТРОВСК
КИРОВОГРАД

F

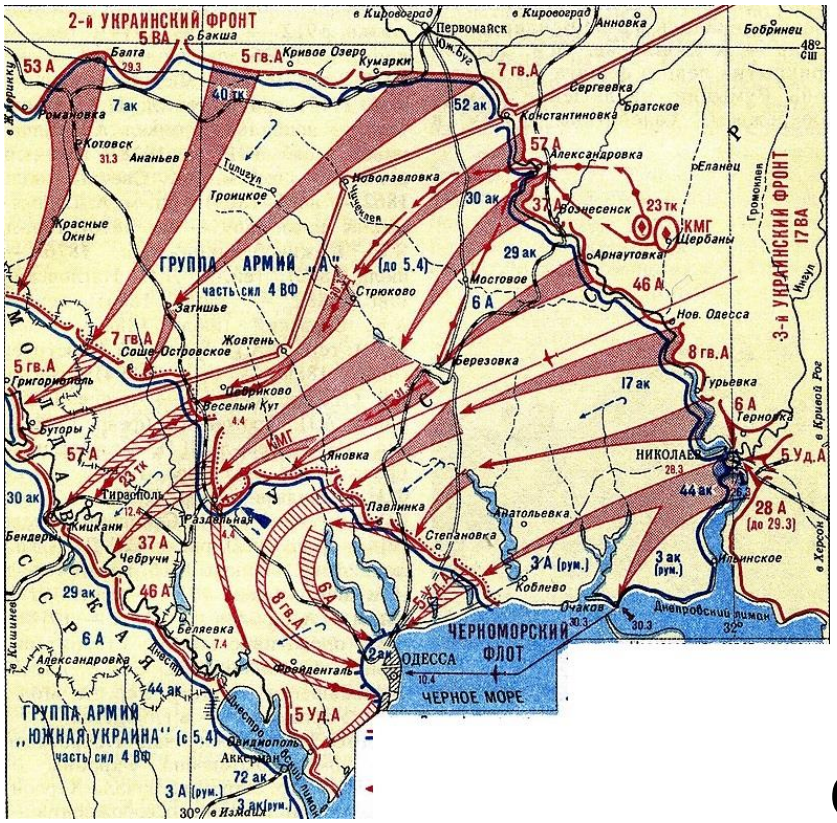

2-й УКРАИНСКИЙ ФРОНТ
3-й УКРАИНСКИЙ ФРОНТ
ГРУППА АРМИЙ „А" (до 5.4)
часть сил 4 ВФ
ГРУППА АРМИЙ „ЮЖНАЯ УКРАИНА" (с 5.4)
часть сил 4 ВФ
ЧЕРНОМОРСКИЙ ФЛОТ
ЧЕРНОЕ МОРЕ
ОДЕССА
НИКОЛАЕВ
Первомайск
Балта
Кривое Озеро
Кумарки
Константиновка
Александровка
Вознесенск
Арнаутовка
Мостовое
Стрюково
Березовка
Новопавловка
Троицкое
Жовтень
Соше-Островское
Веселый Кут
Яновка
Павлинка
Степановка
Анатольевка
Коблево
Очаков
Тирасполь
Раздельная
Кицкани
Бендеры
Чебручи
Беляевка
Александровка
Аккерман
Овидиополь
Фрейденталь
Ильинское
Тернопка
Гурьевка
Нов. Одесса
Сергеевка
Братское
Еланец
Щербаны
Бобринец
Анновка
Кировоград
Бакша
Романовка
Котовск
Ананьев
Красные Окны
Затишье
Григориополь
Буторы
Кишинев
Днепровский лиман

G

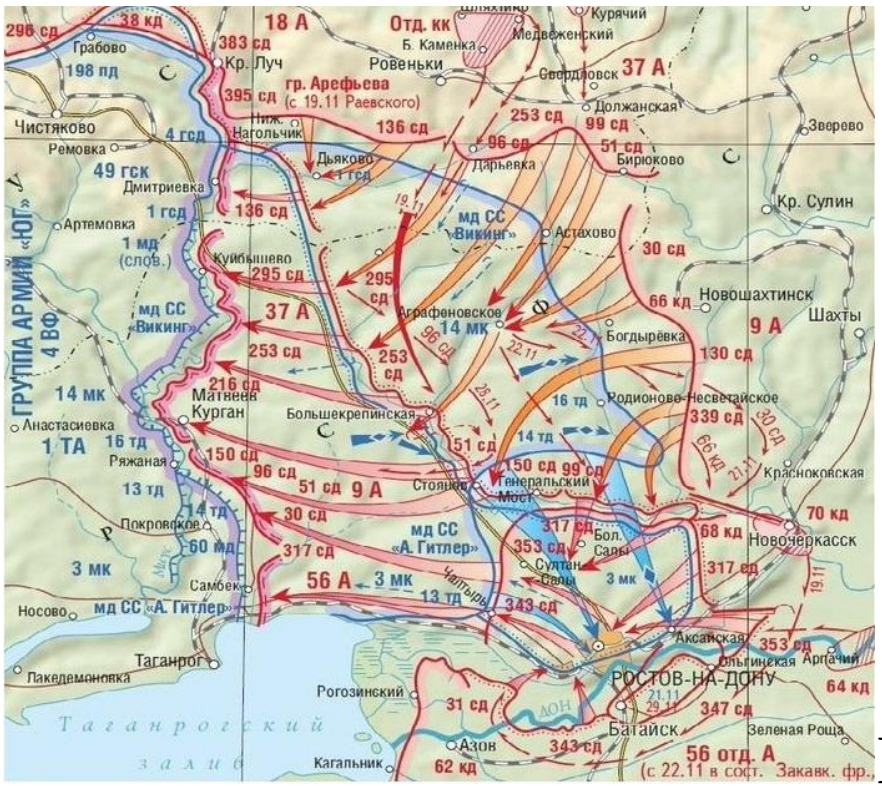
ГРУППА АРМИЙ «ЮГ»
4 ВФ
18 А
Отд. кк
Курячий
Медвеженский
Б. Каменка
Ровеньки
Свердловск
37 А
Должанская
Зверево
Грабово
Кр. Луч
гр. Арефьева
(с 19.11 Раевского)
Чистяково
Ремовка
Дмитриевка
Артемовка
Куйбышево
Дьяково
Дарьевка
Бирюково
Кр. Сулин
Астахово
мд СС «Викинг»
Аграфеновское
Богдырёвка
Новошахтинск
Шахты
9 А
Матвеев Курган
Большекрепинская
Родионово-Несветайское
Анастасиевка
1 ТА
Ряжаная
Стоянов
Генеральский Мост
Красноковская
Покровское
Самбек
мд СС «А. Гитлер»
Бол. Салы
Султан Салы
Новочеркасск
Носово
Таганрог
Лакедемоновка
Аксайская
Ольгинская
Арпачий
РОСТОВ-НА-ДОНУ
Рогозинский
Батайск
Зеленая Роща
Таганрогский залив
Азов
Кагальник
56 отд. А
(с 22.11 в сост. Закавк. фр.)

Н

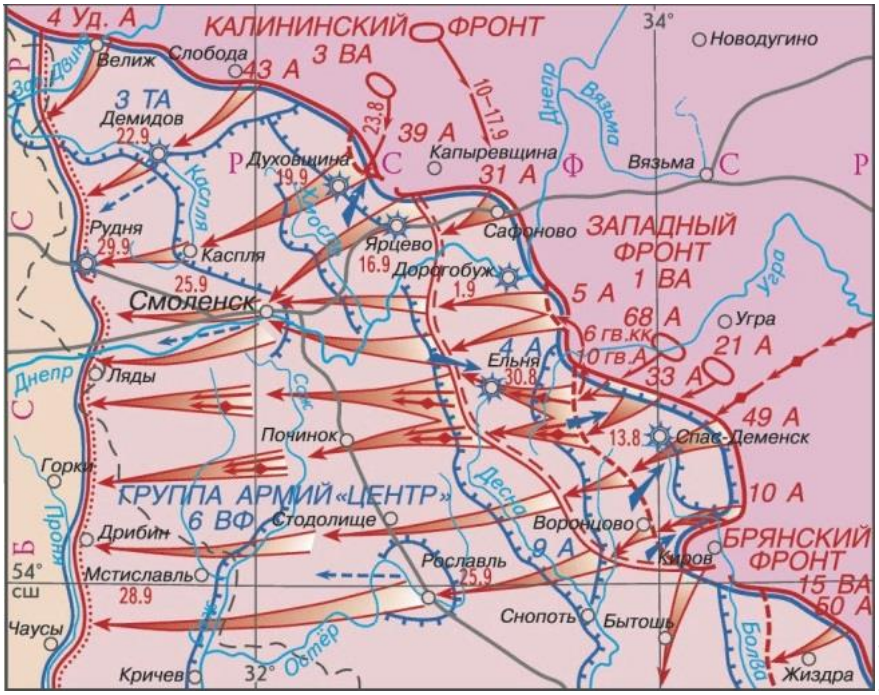
4 Уд. А
КАЛИНИНСКИЙ ФРОНТ
3 ВА
Новодугино
Велиж
Слобода
43 А
3 ТА
Демидов
39 А
Капыревщина
Духовщина
31 А
Вязьма
Рудня
Касплю
Ярцево
Сафоново
ЗАПАДНЫЙ ФРОНТ
1 ВА
Дорогобуж
Смоленск
5 А
68 А
Угра
6 гв.кк
10 гв.А
21 А
Ельня
33 А
Ляды
49 А
Починок
Спас-Деменск
Горки
ГРУППА АРМИЙ «ЦЕНТР»
6 ВФ
10 А
Стодолище
Воронцово
Дрибин
Рославль
Киров
БРЯНСКИЙ ФРОНТ
15 ВА
50 А
Мстиславль
Снопоть
Бытошь
Чаусы
Кричев
Жиздра

I

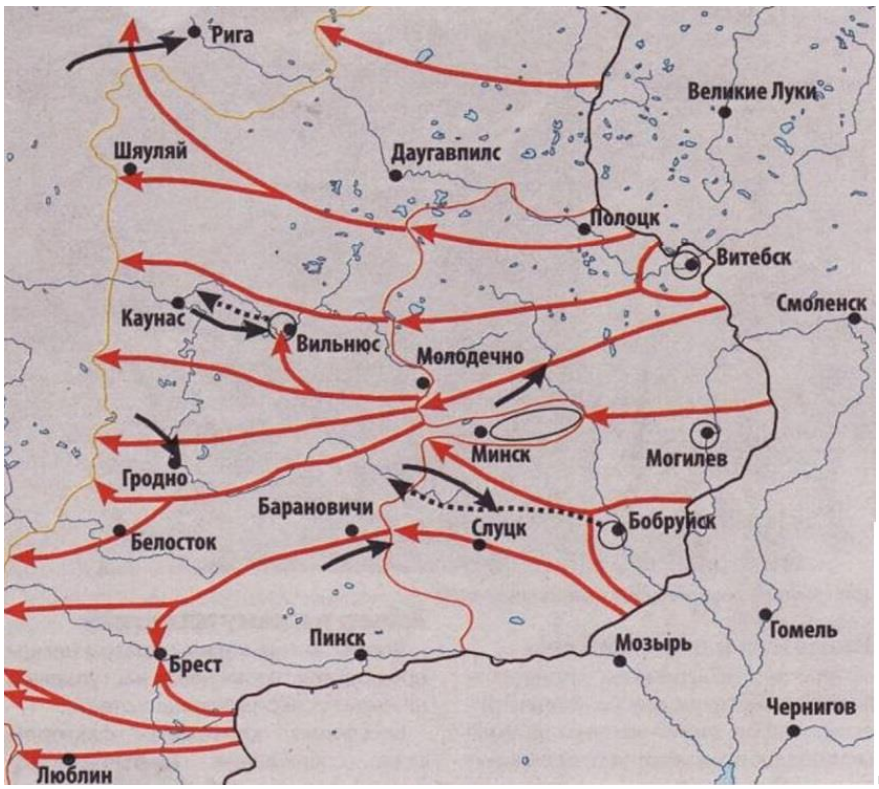
Рига
Великие Луки
Шяуляй
Даугавпилс
Полоцк
Витебск
Смоленск
Каунас
Вильнюс
Молодечно
Минск
Могилев
Гродно
Барановичи
Слуцк
Бобруйск
Белосток
Пинск
Мозырь
Гомель
Брест
Чернигов
Люблин
J

А

Б

В

Г

Д

Е

ж

з



И

К

Номер операции в хронологической последовательности (от наиболее ранней к самой поздней)	Карта наступательной операции	Полководец, командовавший в операции одним из фронтом **(ответ не может повторяться!)**
1	H	Д
2	I	И
3	F	Г
4	D	Б

5	G	В
6	В	К
7	J	Е
8	С	А
9	А	З
10	Е	Ж

За каждый правильный элемент ответа – 1 балл. Всего 20 баллов.

Задание 9. **Вам приведены несколько суждений. Укажите, какие из них являются верными, а какие ошибочными** *(6 баллов)*

1) Гугенотские войны – серия конфликтов между католиками и протестантами.
2) В результате войны Алой и Белой Розы к власти в Англии пришла династия Тюдоров.
3) Столетняя война завершилась подписанием Вестфальского мира.
4) Речь Посполитая образовалась в результате заключения Кревской унии в 1385 г.
5) Освободительная борьба христианских народов Пиренейского полуострова против мусульманских завоевателей в VIII– XV вв. называется Реконкистой.
6) Испанская Непобедимая армада одержала победу над английским флотом в 1588 г.

Номер события	Верно/неверно
1	верно
2	верно
3	неверно
4	неверно
5	верно
6	неверно

За каждый правильный элемент ответа – 1 балл. Всего 6 баллов.

Задание 10. **Вам представлены портреты древнерусских князей. Укажите их имена вместе с отчеством и прозвища.** *(10 баллов)*

1

2



3



4

5

Изображение	Имя правителя	Прозвище

1	Владимир Святославович	Красно Солнышко
2	Олег	Вещий
3	Иван Данилович	Калита
4	Ярослав Владимирович	Мудрый
5	Всеволод Юрьевич	Большое Гнездо

За каждый правильный элемент ответа – 1 балл. Всего 10 баллов.

Задание 11. **Запишите названия терминов, относящихся к периоду ордынского ига, определения которых представлены ниже.** *(5 баллов)*

11.1. _____ – съезд монгольской знати.

11.2. _____ – налог московских князей с Новгородской земли, собиравшийся в XIV-XV вв. для уплаты в Орду.

11.3. _____ – собрание наставлений и поручений, своеобразный свод законов Монгольского государства.

11.4. _____ – грамоты на владение ордынских ханов подвластным русским князьям.

11.5. _____ – восточные купцы, которым в XIII в. ордынские ханы давали на откуп право сбора налогов с русских земель.

Ответы:
11.1. Курултай (хурал)
11.2. черный бор
11.3. яса (яса Чингисхана)
11.4. ярлык
11.5. бессермены
За каждый правильный элемент ответа – 1 балл. Всего 5 баллов.

Задание 12. **Рассмотрите изображения памятников архитектуры и определите, к какой архитектурной школе их относят. В ответ запишите номер и наименование архитектурного сооружения.** *(8 баллов)*



1

2

3

4

Номер сооружения	Архитектурная школа, к которой относят сооружение (Владимиро-Суздальская/ Новгородско-Псковская)	Название сооружения
1	Владимиро-Суздальская	Дмитриевский собор (Дмитровский собор)
2	Новгородско-Псковская	Церковь Федора Стратилата на Ручью
3	Новгородско-Псковская	Церковь Димитрия Солунского
4	Владимиро-Суздальская	Успенский собор

За каждый правильный элемент ответа – 1 балл. Всего 8 баллов.

Задание 13. **Прочитайте выдержку из «Записок революционера» П.А. Кропоткина, укажите название движения революционных народников, о котором говорится в тексте, а также императора, в чье правление оно разворачивалось.** *(2 балла)*

«Различные писатели пробовали объяснить движение (революционных народников в деревню, их пропаганду в среде крестьян) влиянием извне. Влияние эмигрантов - любимое объяснение полиций всего мира... Молодежь прислушивалась к мощному голосу Бакунина... деятельность Интернационала производила на нас чарующее впечатление. Но причины движения (революционных народников в деревню) лежали гораздо глубже.

Мы видели, что крестьяне совершенно разорены чрезмерными податями и продажей скота для покрытия недоимок. Мы... тогда уже предвидели то полное обнищание всего населения, которое... теперь стало совершившимся фактом.
Мы знали, какой наглый грабёж идёт повсеместно в России. Мы знали о

произволе чиновников... Мы постоянно слышали о ночных обысках, об арестованных друзьях, которых гноили по тюрьмам. Мы сознавали поэтому необходимость политической борьбы против этой страшной власти, убивавшей лучшие умственные силы страны...».

13.1. Название движения –
13.2. Император, правивший в данное время в России –
Ответы:
13.1. хождение в народ
13.2. Александр II
За каждый правильный элемент ответа – 1 балл. Всего 2 балла.